**ФЭМП . Тема : Познание ФЭМПЦель: упражнять в устном счете в пределах 20, закрепить знания об особенностях образования двузначных чисел в пределах 20, упражнять в ориентации на листе бумаги, развивать логическое мышление.**

ЗАНЯТИЕ 18

1. Напиши число, которое состоит из:

- одного десятка и двух единиц ☐
- одного десятка и пяти единиц ☐
- одного десятка ☐
- трёх единиц ☐
- двух десятков ☐

2. Мальчика Ваню спросили: «У тебя есть брат?» «Есть», — ответил Ваня. «А у твоего брата есть брат?» «Нет», — ответил Ваня. Прав ли он?

3. Какая из этих линий называется «замкнутая»? Обведи её.



4. Не отрывая карандаша, проведи линию начиная с серой точки: 1 клетка вверх, 6 — налево, 3 — вниз, 10 — направо, 2 — вверх, 1 — налево, 2 — вверх, 3 — налево, 1 — вниз.

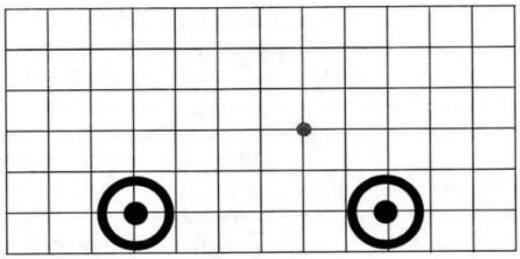

5. Напиши в центре каждой фигуры, сколько в ней углов.

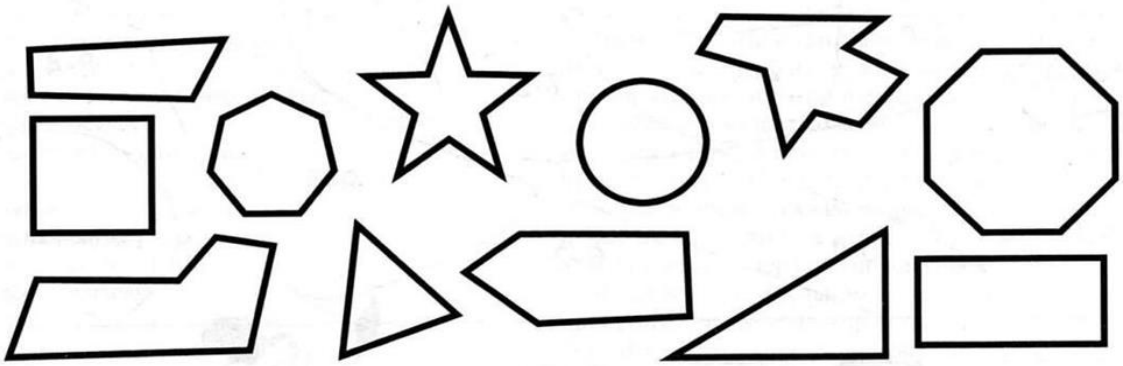

20 − 5 =  10 + 5 =  20 − 10 =